Réponses attendues Tout élément de réponse non évoqué dans ce correctif, mais dont le professeur valide le contenu doit être considéré comme correct.

Nom - Prénom : ..... *Classe :* .....

Volet géographique

.../40

I. Calais – ses fonctions

Observe le document 1

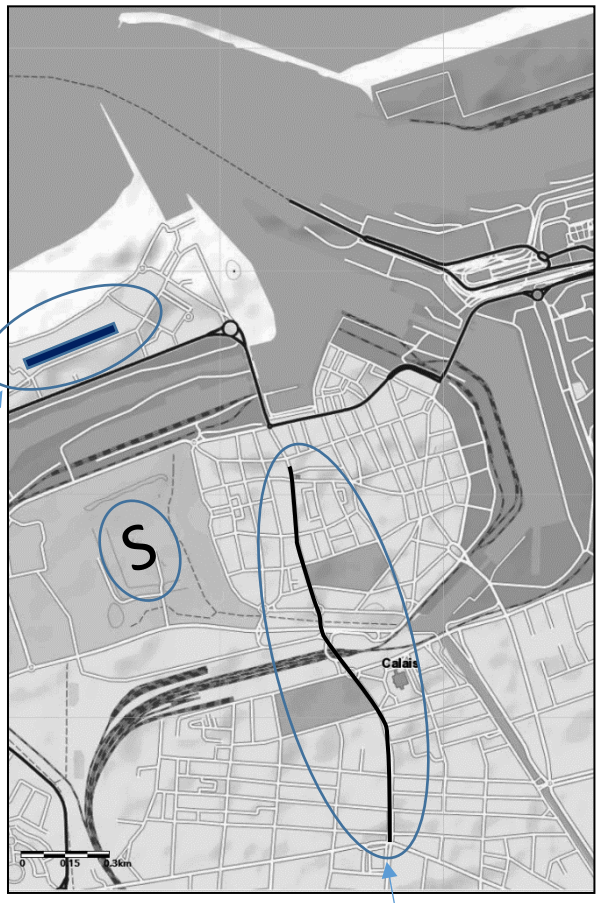

.../1 **1.** Nomme le type de bâtiment indiqué par une flèche et qui fait face à la mer.

Immeuble ou immeuble à appartements ou autre nom appris

.../1 **2.** Dessine l'emplacement de ce bâtiment sur le plan ci-contre.

.../1 **3.** Nomme une fonction que tu peux identifier à l'avant-plan.

Tourisme ou résidence (logement…)

Observe le document 2

Un parcours touristique est identifié par des numéros.

.../1 **4.** Retrace le trajet qui va de la Tour de Guet jusqu'au théâtre sur le plan ci-dessus.

.../1 **5.** Estime la longueur du trajet de la Tour de Guet jusqu'au théâtre (en mètres ou en kilomètres).

Les valeurs acceptées : entre 1200 et 1400 mètres ou entre 1,2 et 1,4 km

.../1 **6.** Nomme la fonction des espaces repérés par le symbole

Fonction portuaire ou fonction de transport ou fonction d'échange ou fonction maritime …

.../1 **7.** Nomme la fonction des lieux repérés par le symbole

Fonction religieuse

...../1 **8.** Depuis la Tour de Guet, indique la direction cardinale dans laquelle se trouve le terminal « Eurostar ».

Au sud

...../1 **9.** Coche l'affirmation correcte

Le plan touristique de Calais met en avant un tourisme … :

❑ gastronomique ❑ sportif **X** culturel ❑ balnéaire

Observe le document 3

...../1 **10.** Identifie un espace destiné au sport et positionne-le à l'aide de la lettre « **S** » sur le plan de la page précédente.

...../1 **11.** Nomme le type d'espace (ou milieu) qui domine sur cette vue verticale.

Espace urbain ou urbanisé.....

...../1 **12.** Sur la base de tes connaissances, nomme le phénomène de développement de l'habitat en périphérie d'une ville.

Lotissement ou périurbanisation

II. Repères à différentes échelles

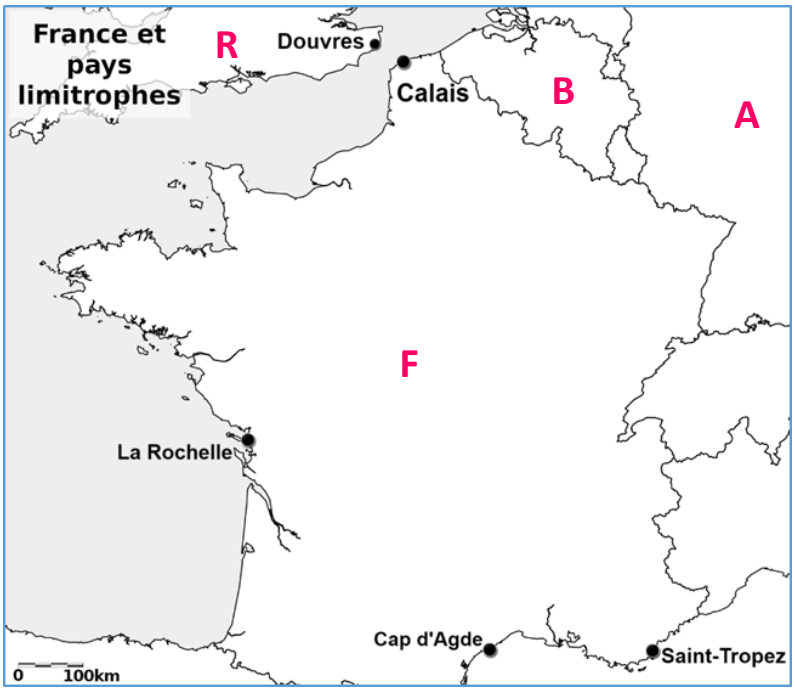

...../2 **13.** Recopie sur la carte la lettre correspondant à chaque pays.

- B : Belgique
- F : France
- A : Allemagne
- R : Royaume-Uni

...../1 **14.** Sur la base de tes connaissances, complète la phrase suivante :

Un pays limitrophe est un pays …

Qui est contigu, qui a une ou des frontières communes…

...../1 **15.** Le tunnel sous la Manche a été construit entre Calais et Douvres. Observe la carte ci-dessus et cite la raison qui explique sa construction à cet endroit.

La distance entre la France et le Royaume-Uni (ou l'Angleterre) est la plus courte

Observe le document 4

...../4 **16.** Nomme les villes numérotées de 1 à 8.

1 = Bruges	2 = Gand	3 = Bruxelles	4 = Courtrai
5 = Mons	6 = Charleroi	7 = Namur	8 = Liège

.../1 **17.** Un espace peu peuplé est mis en évidence sur la carte. Situe-le en utilisant au moins deux repères spatiaux.

À l'est de Liège - le long de la frontière avec l'Allemagne – dans les Hautes Fagnes …

.../1 **18.** Coche la bonne réponse. **Les villes 5, 6, 7 et 8 se situent :**

- ❑ à la limite entre la Flandre et la Wallonie ;
- ❑ sur la frontière linguistique ;
- ❑ à la limite entre l'Ardenne et la Flandre ;
- ✓ dans le bassin industriel wallon.

.../1 **19.** Calcule la distance à vol d'oiseau entre Calais et Anvers.

Distance acceptée entre 170 km et 190 km

.../1 **20.** Complète la phrase suivante en indiquant une direction cardinale.

Calais se situe à l'ouest (ouest-sud-ouest est bien entendu aussi correct mais au-delà de ce qui est attendu dans les socles) *par rapport à Anvers.*

Observe le document 5

.../1 **21.** Nomme l'espace en France où l'ensoleillement est le moins important. Utilise au moins un repère spatial.

Au nord de la France ou au nord de l'Ile de France ou dans le Nord-Pas-de-Calais, la Picardie, la Lorraine et l'Alsace et la Haute-Normandie

.../1 **22.** Nomme l'espace en France où l'ensoleillement est le plus important. Utilise au moins un repère spatial.

Au sud-est de la France ou près de la Mer Méditerranée ou en Provence-Alpes-Côte d'Azur et en Corse

Observe le document 6

.../4 **23.** Nomme les mers, les océans, les reliefs et les cours d'eau repérés par les lettres.

G : Mer du Nord	H : Océan Atlantique	K : Alpes
I : Mer Méditerranée	J : Pyrénées	
W : Escaut	X : Sambre	Y : Meuse

III. L'activité touristique à l'échelle de la France

Observe le **document 7**. Deux espaces où se situent les plus fortes concentrations de places de camping sont mis en évidence par un trait en pointillés (n°1 et n°2).

...//2 **24.** Situe ces deux espaces en utilisant au moins un repère hydrographique.

Espace 1 : côte de l'Océan atlantique …

Espace 2 : côte de la Mer méditerranée …

...//2 **25.** Observe les **documents 5 et 6**. Cite deux éléments qui permettent de justifier pourquoi les campings sont particulièrement présents dans ces deux espaces.

Présence de la mer – Ensoleillement plus important …

Les espaces où l'on observe le plus d'emplacements de camping ont essentiellement une activité touristique estivale.

...//1 **26.** Nomme la période de l'année qui correspond à la période « estivale ».

Eté ou vacances d'été ou grandes vacances ou juillet/aout…

Observe le **document 8**. Un espace remarquable est mis en évidence par un trait en pointillés (n°3).

...//1 **27.** Situe cet espace en utilisant au moins un repère spatial.

Alpes françaises ou partie des Alpes à la frontière avec l'Italie et la Suisse ou…

...//1 **28.** Nomme une activité touristique spécifique à ce milieu (ou cet espace).

Sports d'hiver ou randonnée ou …

...//1 **29.** Sur base de tes connaissances, cite un élément qui justifie pourquoi les campings sont moins présents dans cet espace.

Les températures sont plus basses ou les précipitations sont plus abondantes ou les orages sont plus violents

...//2 **30.** À l'aide des **documents 4 et 5** et de tes observations, cite un atout et une contrainte pour l'activité touristique à Calais.

- Atout : proximité d'autres pays ou proximité de grandes villes ou proximité d'espaces où la densité de la population est importante ou proximité de la mer…
- Contrainte : Ensoleillement plus faible ou proximité d'activités industrielles …

Volet historique

.../40

I. Calais – le tourisme à Calais hier et aujourd'hui

Tu as découvert que Calais est une ville qui a une activité touristique. Cette activité repose notamment sur des éléments du passé.

Observe le document 2

Les 5 premières étapes du parcours touristique sont situées dans le centre historique de Calais qui date du Moyen Âge.

.../1 **31.** D'après tes connaissances, cite un élément qui délimite généralement la ville au Moyen Âge.

Des murailles ou des enceintes ou des fortifications ou des remparts

.../1 **32.** Cite un élément visible sur le plan actuel qui délimite le centre historique de Calais.

Des canaux et/ou des boulevards et/ou des quais et/ou des espaces portuaires et/ou la citadelle

.../1 **33.** Le numéro 8 fait référence à une manufacture. Cite le phénomène historique qui transformera progressivement les manufactures en usines.

Révolution industrielle ou industrialisation ou remplacement du travail de l'homme par des machines …

.../1 **34.** Recopie **un** numéro de la légende du plan touristique en lien avec la Seconde Guerre mondiale.

5 ou 6

.../2 **35.** À partir de l'observation du plan, cite deux autres bâtiments historiques que le touriste pourrait visiter en dehors du parcours.

- Citadelle
- Fort Risban ou temple

II. Le développement des loisirs et du tourisme

Lis attentivement le document 13

.../2 **36.** Écris la lettre correspondant à l'apparition de chaque fait ou phénomène sous la représentation du temps. Aide-toi de l'exemple « a ».

a. *Création des villages de vacances*

b. Développement du tourisme

c. Temps libres et loisirs réservés aux bourgeois

d. Loisirs et vacances pour tous

e. Démocratisation des spectacles et des sports

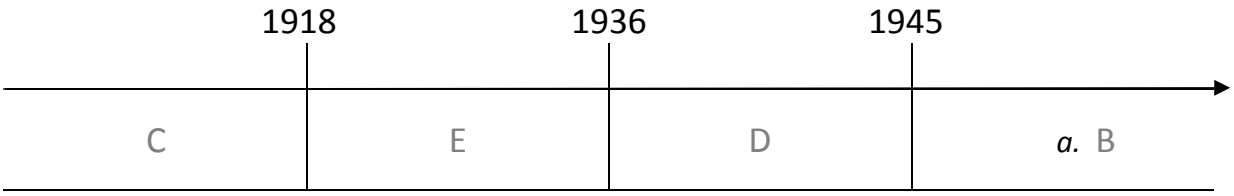

…/1 **37.** Coche le titre adapté à la représentation du temps de la question précédente.

- ❑ Les loisirs bourgeois aux XIXe et XXe siècles.
- ✓ Le développement du temps libre et des loisirs pour tous.
- ❑ Les luttes ouvrières.
- ❑ Comment occuper son temps libre ?
- ❑ L'évolution des droits des travailleurs.

…/1 **38.** 1936 est une date clé en ce qui concerne l'accès aux loisirs. Cite le fait qui s'y rapporte.

Loi sur les congés payés ou apparition des congés payés

Les sociétés industrielles modifient les usages du temps mais aussi l'organisation du travail.

…/2 **39.** Cite deux caractéristiques de l'organisation du travail dans les sociétés industrielles du XIXe siècle.

- Mécanisation du travail – longue journée de travail …
- Salaires faibles – peu de sécurité au travail – travail des enfants – travail peu qualifié …

Observe le document 14

…/2 **40.** Cite 2 moyens de transport mis à disposition des touristes.

- Bateau
- Train ou tramway

…/1 **41.** Cite deux autres infrastructures mises à disposition des touristes.

- Digue ou parc
- Hôtel ou chalets ou casino

…/2 **42.** Cite quatre loisirs proposés aux touristes.

- Course de chevaux
- Promenade
- Plage
- Courses de vélos ou régates ou casino

III. Calais avant le développement des loisirs et du tourisme

Lis attentivement le document 9

…/1 **43.** Coche la bonne case. L'origine du nom de Calais est …

- ❑ … certaine.
- **X** … hypothétique.

…/1 **44.** Écris une information extraite du document pour justifier ton choix.

« Le nom de Calais AURAIT pour origine » ou « mais une autre explication … »

Sur la base de tes connaissances

...../1 **45.** Nomme la période conventionnelle durant laquelle vivaient les Celtes, les Gaulois et les Romains.

Antiquité

...../1 **46.** Nomme la période conventionnelle qui débute en 476 après J.-C.

Moyen Âge

...../1 **47.** Cite l'évènement qui a eu lieu en 476 après J.-C.

Chute de l'Empire romain d'Occident ou dernier empereur romain d'Occident

Lis attentivement le document 10

...../1 **48.** Coche la bonne case. Le document 10 est un document… **X** original ❑ reconstitué

...../1 **49.** Coche la bonne case. L'auteur du message est … ❑ un spécialiste **X** un témoin

...../1 **50.** Cite deux éléments qui caractérisent les conditions de vie dans la ville de Calais en 1347.

- Famines ou plus de nourriture ou les habitants mangent les animaux domestiques ou c'est la guerre avec l'Angleterre qui assiège la ville
-

Observe les documents 10, 11 et 12

...../2 **51.** Nomme les différents éléments identifiés par des lettres sur l'enluminure.

a. *Anglais ou roi d'Angleterre*

b. *Clés de la ville*

c. *Bourgeois de Calais*

d. *Remparts ou murailles de la ville de Calais*

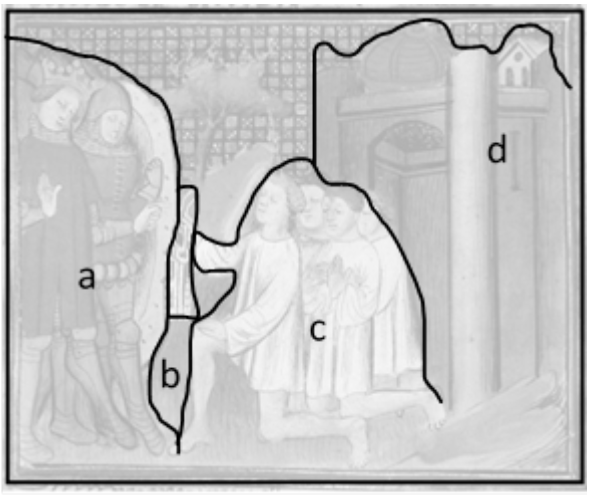

...../1,5 **52.** Entoure le siècle de production des documents

Document 10 : 13e s. – 14e s. – 15e s.

Document 11 : 13e s. – 14e s. – 15e s.

Document 12 : 18e s. – 19e s. – 20e s.

...../1,5 **53.** Nomme la nature des documents

Document 10 *Document écrit*

Document 11 *Document iconographique*

Document 12 *Document iconographique*

…/1 **54.** Auguste Rodin réalise une sculpture en 1895 appelée « les Bourgeois de Calais ».
Coche la bonne réponse.

Cette sculpture commémore :

- ❑ L'arrivée des bourgeois à Calais au XIXe siècle.
- ❑ Le développement du tourisme pour les bourgeois.
- ✓ Un fait historique médiéval.
- ❑ La fin de l'industrie, et donc des bourgeois, à Calais.

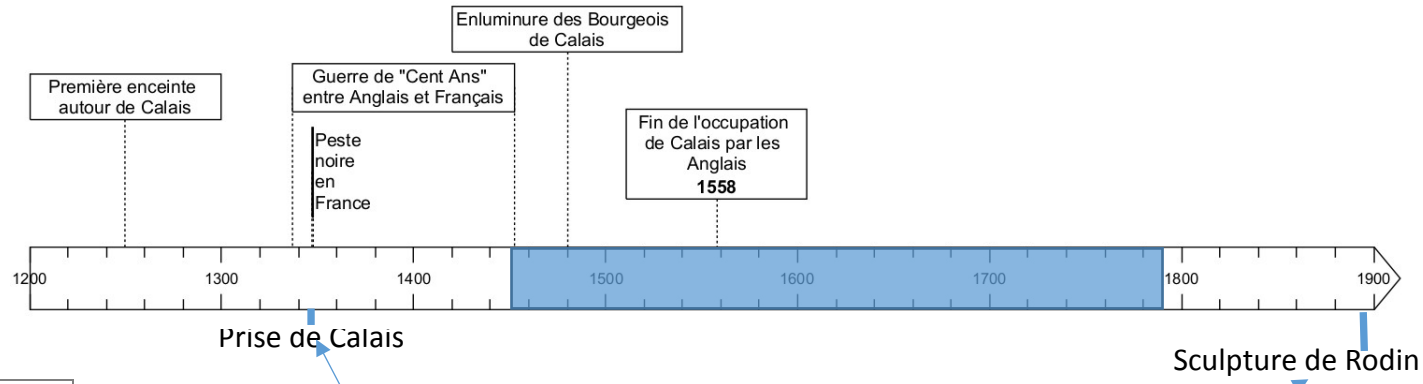

…/2 **55.** Colorie sur la ligne du temps la période correspondant aux Temps modernes.
Début : 1453 ou 1492 ou 1500 - Fin : 1789

…/1 **56.** Positionne sous la ligne du temps la prise de Calais par les Anglais.

…/1 **57.** Positionne sous la ligne du temps la sculpture réalisée par Rodin.

Sur la base de la ligne du temps.

…/1 **58.** Cite un événement contemporain à la prise de Calais par les Anglais.

Guerre de « Cents Ans » ou Peste noire en France

…/1 **59.** Complète la phrase.

La guerre de Cent Ans a eu lieu aux 14e et 15e siècles.

…/1 **60.** Coche la bonne proposition.

La ville de Calais a été occupée par les Anglais durant… :

❑ 50 ans X deux siècles ❑ deux millénaires ❑ 350 ans

…/2 **61.** Coche la bonne proposition.

La fortification de Calais est antérieure à la guerre de Cent Ans.	X Vrai ❑ Faux
La découverte des Amériques par Christophe Colomb est contemporaine à la guerre de Cent Ans.	❑ Vrai X Faux